PB-C2-CONTRÔLE D'ENTRAINEMENT

Exercice 1 : Rappels de cours

1-Indiquer le nom et représenter le symbole normalisé de chaque dipôle.

			Diode	
		Résistance	**Interrupteur fermé**	

2-Le circuit qui correspond à un circuit fermé est le circuit :

□ Circuit A

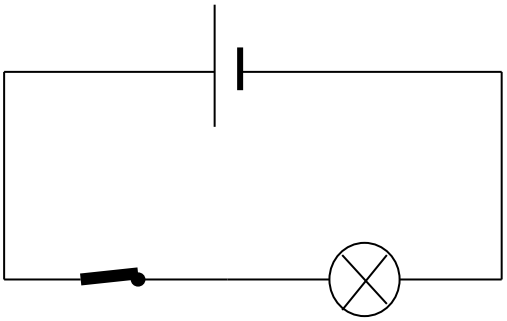

□ Circuit B

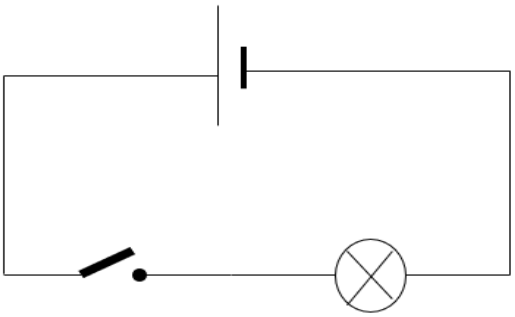

3-Entourrer le circuit dans lequel la lampe brille.

Exercice 2 : Représentation d'un circuit électrique

1-Réprésenter **A LA REGLE** à l'aide des symboles normalisés les circuits suivants.
Veillez à bien respecter l'ordre des dipôles.

Circuit 1

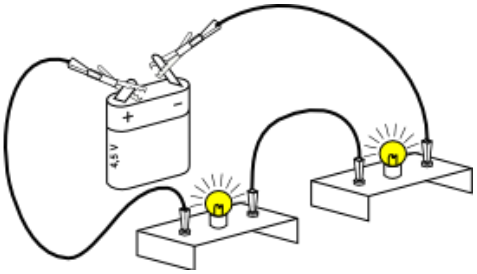

Circuit 2

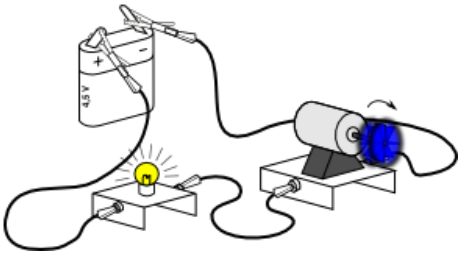

Circuit 3

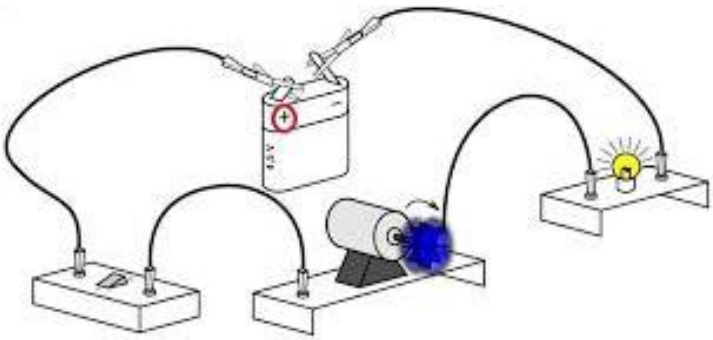

Circuit 4

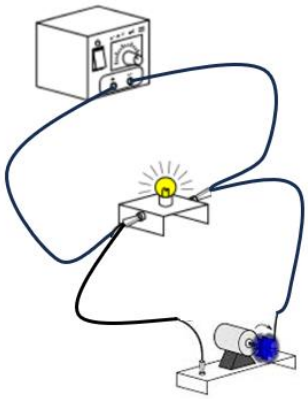

Circuit 5 :

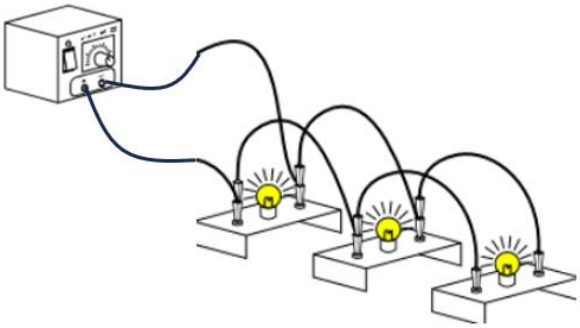

Circuit 6 :

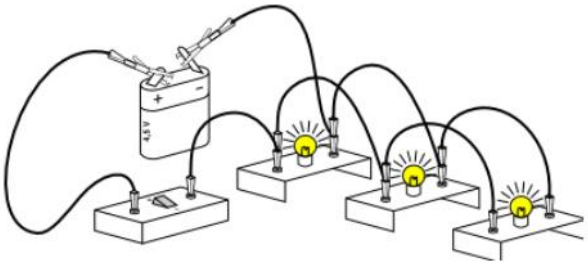

Circuit 7 :

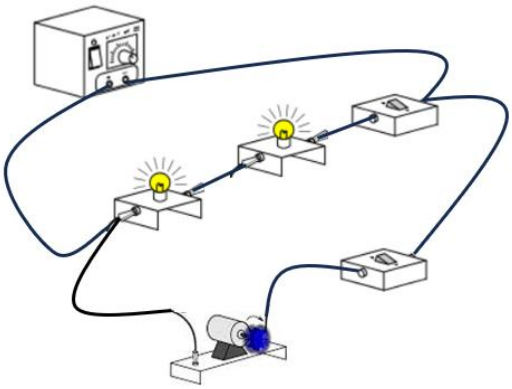

Circuit 8 :

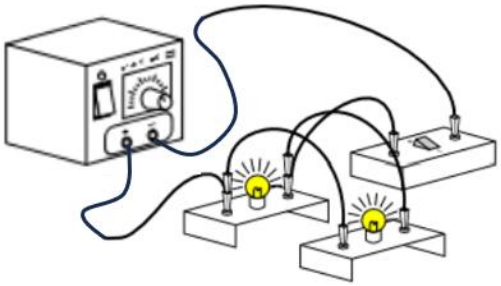

2-Pour chacun de ces 8 circuits, indiquer s'il s'agit d'un circuit en série ou avec des dérivations ou un circuit mixte (un circuit électrique comportant des parties en série et des parties avec des dérivations)

Circuit n°	**1**	**2**	**3**	**4**
Série ou dérivation ou mixte				
Circuit n°	**5**	**6**	**7**	**8**
Série ou dérivation ou mixte				